第 1 講　地球のすがたと人々の暮らし

Step 1

1 次の問いに答えなさい。

⑴ 世界で最大の大陸と大洋を，それぞれ何というか。

⑵ 中心地点からの距離と方位が正しい地図で，航空図に向いているものを何というか。

⑶ 北緯・南緯 23 度 26 分の緯線を，それぞれ何というか。

⑷ ロシアとトルコは，世界の 6 つの州のうち何州と何州にまたがるか，それぞれ答えよ。

⑸ 領域〔領土〕・国民とともに，国家の 3 条件の 1 つとなっているものは何か。

⑹ 2022年時点，世界で 2 番目に人口が多い国はどこか。

⑺「熱帯」には，熱帯雨林気候ともう 1 つ何という気候があるか。

⑻ 降水量が少なく，昼間と夜間の気温差が激しい気候帯を何というか。

⑼ 次の文章の正誤を判断し，○×で答えよ。

「現在，あらゆる地域の暮らしは，交通手段の発達やインターネットの普及などにより平均化してきている。」

⑽ 中南米・アフリカなどで主食とされることが多い，小麦以外の作物を 1 つ答えよ。

⑾ キリスト教の聖地とされる，イスラエルの首都とはどこか。

⑿ インド人に信者が多い，インド発祥の宗教とは何か。

Step　2

2　次の略地図にⅠ群とⅡ群の図を入れると，世界の６州の二酸化炭素排出量や人口を比較する主題図になる。これらを見て，(1)〜(4)の問いに答えなさい。

略地図

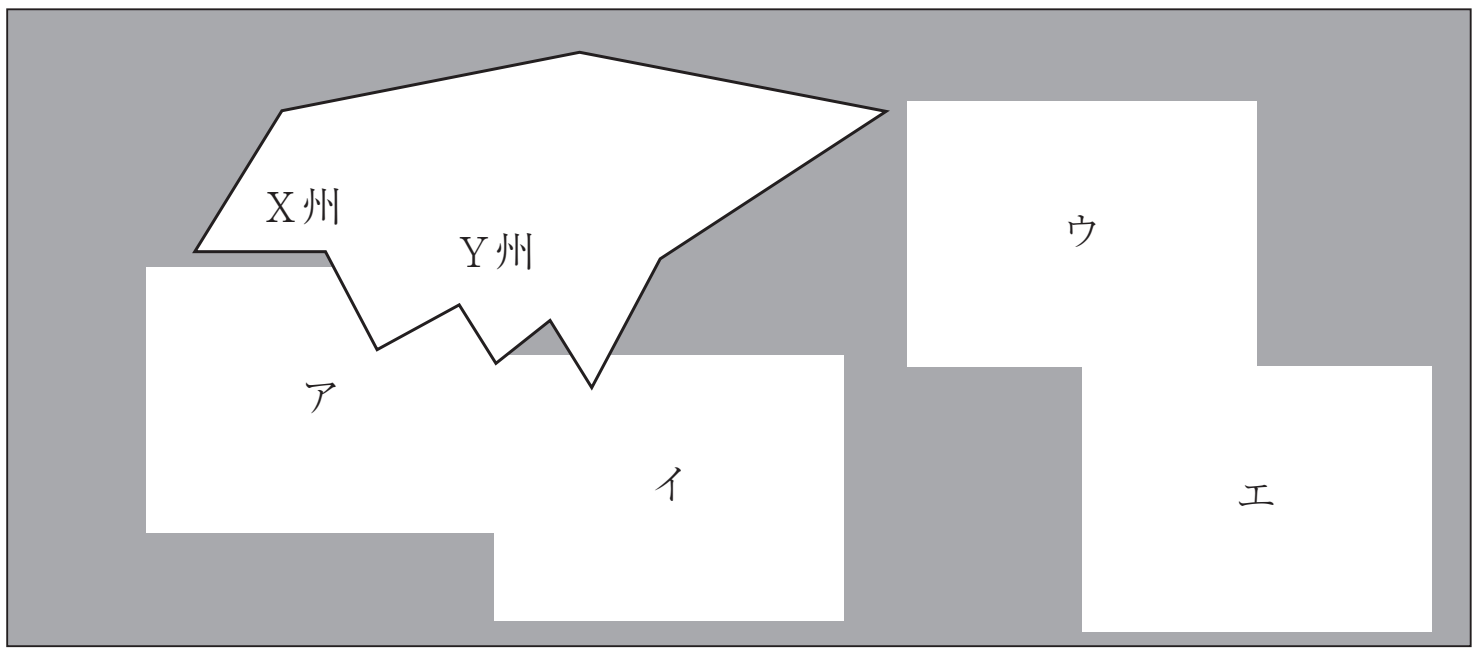

Ⅰ群（図）

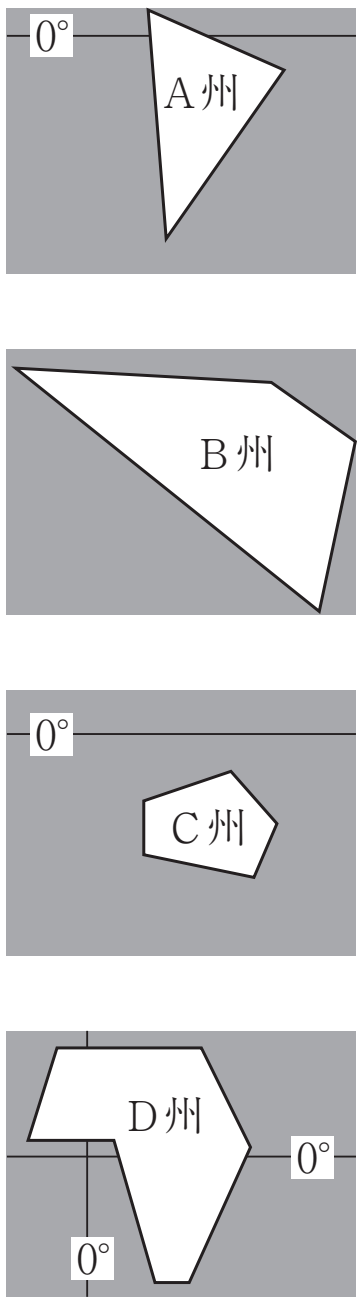

Ⅱ群　（図　世界の６州の割合の比較）

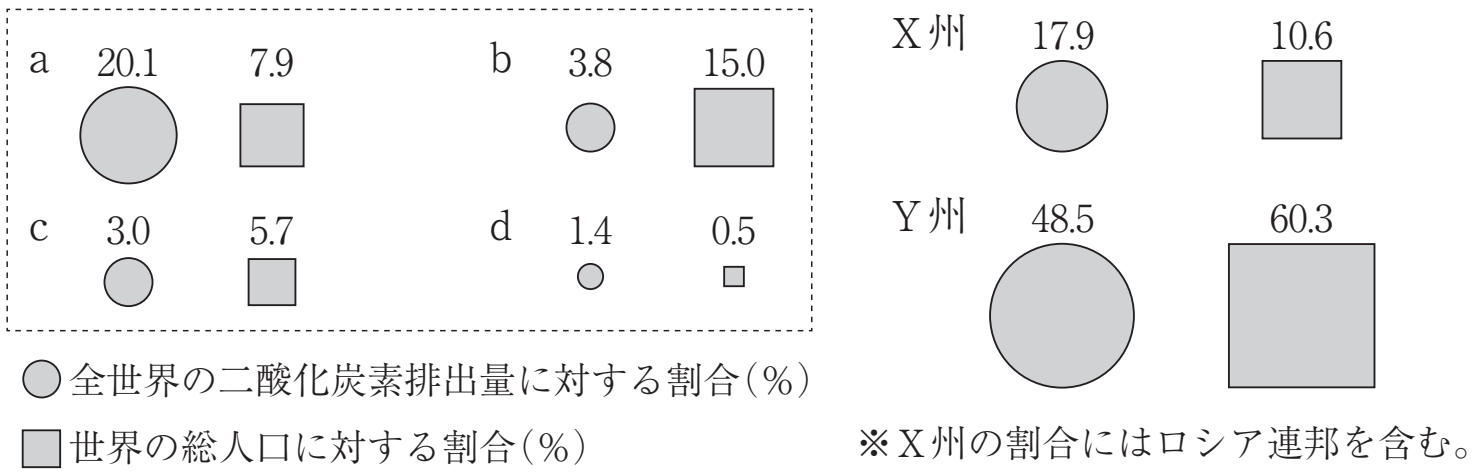

※X州の割合にはロシア連邦を含む。

（「Data Book of The WORLD」2013年版などから作成）

(1)　略地図のア〜エの位置には，Ⅰ群のA〜D州の図が，一つずつあてはまる。エに入る適切な図を，A〜D州から，一つ選んで記号を書きなさい。

(2)　Ⅱ群のa〜dの図は，Ⅰ群のA〜D州のいずれかに，一つずつあてはまる。aとbが入る適切な州を，A〜D州から，一つずつ選んで記号を書きなさい。

(3)　X州の特色として，最も適切なものを，一つ選んで記号を書きなさい。
ア　NAFTAの締結による貿易の自由化
イ　アマゾン地域の開発による森林の減少
ウ　ユーロの導入による市場統合の進展
エ　石油収入による乾燥地域での都市建設

(4)　Y州に位置する，標高8000mをこえる山々が集まる山脈を，一つ選んで記号を書きなさい。
ア　アルプス　　イ　ヒマラヤ　　ウ　アパラチア　　エ　アンデス

【秋田県】

Step　3

3　次の図を見て，あとの(1)〜(4)の問いに答えなさい。

（注）　島等は省略したものもある。また，国境に一部未確定部分がある。

(1)　図中の大陸のうち，本初子午線が通る大陸名を**すべて**書きなさい。ただし，図中には，六大陸のうち南極大陸を除く五つの大陸が示してある。

(2)　図中のロサンゼルスでは，西経 120 度の経線で標準時を定めている。日本が 2 月 9 日午前 9 時のとき，ロサンゼルスでは 2 月何日の何時か書きなさい。なお，午前，午後については，解答欄の「午前」,「午後」のいずれかを ⬭ で囲むこと。

（2 月　　　日　午前　午後　　　時）

(3)　次の文章は，図中に矢印で示した南アジアに吹く風について説明したものである。文章中の □ にあてはまる適当な語を書きなさい。

図中の矢印は，海洋から大陸へ風が吹いていることを示しており，これは夏の風向きである。この地域では，□ という夏と冬で風向きが変わる風が吹いている。

(4)　こうたさんは，前の図中の中国，アメリカ合衆国及びインドの農業と貿易について調べ，次の資料１～資料３のようにまとめた。これらの資料から読み取れることとして最も適当なものを，あとのア～エのうちから一つ選び，その符号を書きなさい。

資料１　穀類生産量上位５か国の世界の穀類生産量に占める割合

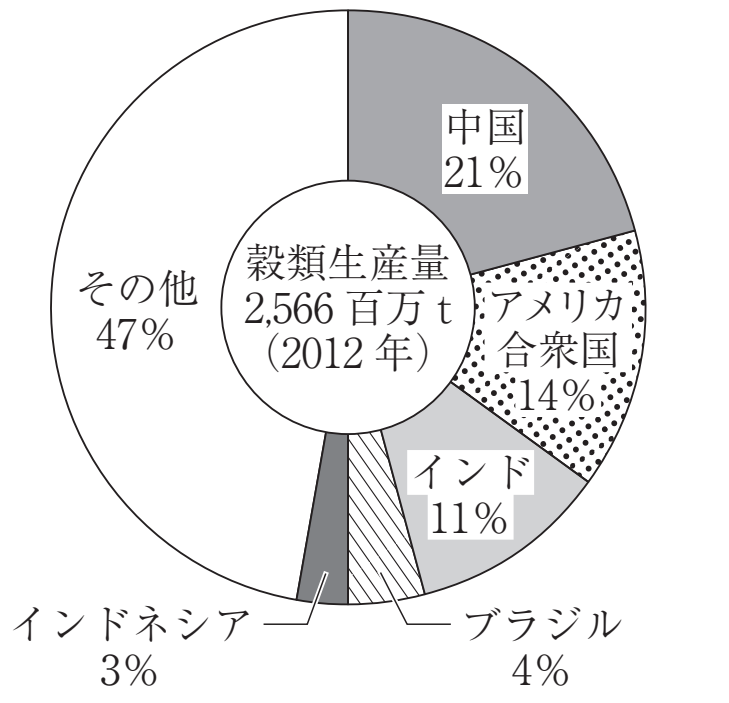

（総務省統計局「世界の統計 2015」より作成）

資料２　就業人口に占める農林水産業就業人口の割合と国土面積に占める農地の割合

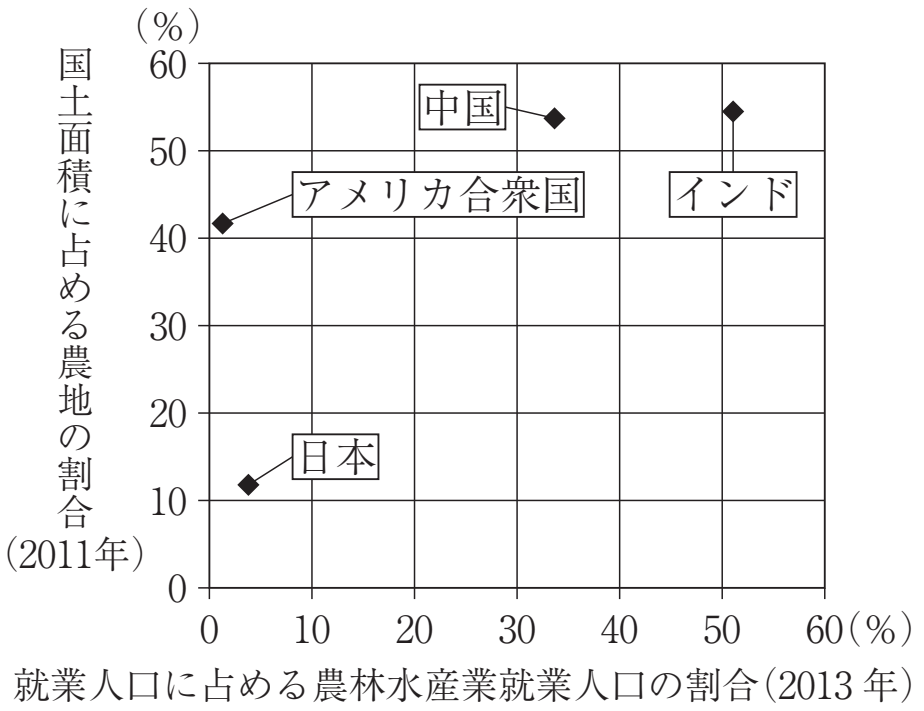

（「世界国勢図会 2014／15」より作成）

資料３　中国，アメリカ合衆国及びインドの３か国と日本との貿易（百万ドル）

	日本への輸出総額		日本からの輸入総額	
		農林水産物輸出額		農林水産物輸入額
中国	181,052	12,131	126,472	586
アメリカ合衆国	71,390	17,564	128,794	881
インド	6,988	920	8,121	8

（注）　表中のデータは，アメリカ合衆国は 2013 年，中国とインドは 2014 年のものである。

（「農林水産省ホームページ」より作成）

ア　中国，アメリカ合衆国，インドの３か国で，世界の穀類生産量の 46 %を占めている。この３か国の日本への農林水産物輸出額の合計は，500 億ドル以上である。

イ　アメリカ合衆国は，就業人口に占める農林水産業就業人口の割合が日本よりも低い。アメリカ合衆国の日本からの農林水産物輸入額は，日本への農林水産物輸出額よりも多い。

ウ　インドと中国は，国土面積に占める農地の割合がともに 50 %以上である。インドの日本への農林水産物輸出額は，日本への輸出総額の約 30 %を占めている。

エ　中国の穀類生産量は５億 t 以上である。中国は日本との貿易において，輸出総額は輸入総額を，農林水産物輸出額は農林水産物輸入額を，それぞれ上回っている。

【千葉県】

第１講　地球のすがたと人々の暮らし

Step 1

1 (1) ユーラシア（大陸）・太平洋　(2) 正距方位図法　(3) 北回帰線・南回帰線
(4) ヨーロッパ州・アジア州（順不同）　(5) 主権〔政府〕　(6) インド　(7) サバナ気候
(8) 乾燥帯　(9) ○　(10) とうもろこし　(11) エルサレム　(12) ヒンドゥー教〔ヒンズー教〕

Step 2

2 (1) A（州）　(2) a.　B（州）　b.　D（州）　(3) ウ　(4) イ

Step 3

3 (1) ユーラシア〔大陸〕・アフリカ〔大陸〕（順不同）　(2) (2月) 8 (日) 午後4 (時)
(3) モンスーン（または，季節風（きせつふう））　(4) エ